Comprueba lo que has aprendido 1

1.- ¿Cuántas líneas tiene el pentagrama?____
¿Y cuantos espacios?_____

2- Dibuja la clave de sol



3.- Escribe la escala musical en el pentagrama:



4.- Di el nombre de estas notas:



5.- Completa:

- El compás de 3/4 tiene _____ pulsos
- El compás de 4/4 tiene _____ pulsos

Pinta de rojo los que sean compases de 3/4 y de azul los que sean compases de 4/4.

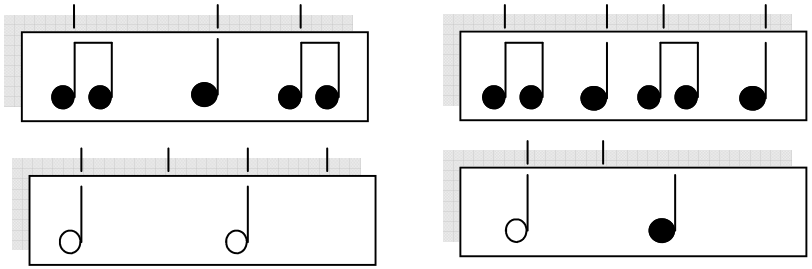
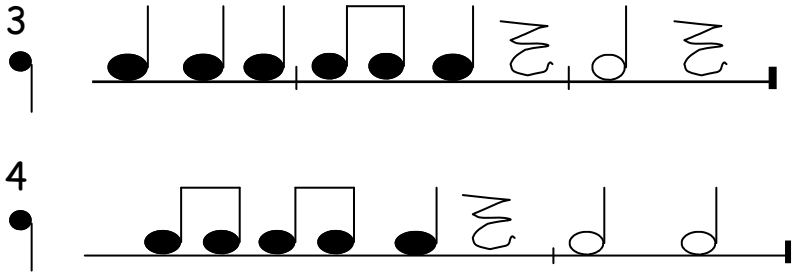
6.- Lee los siguientes ejercicios de ritmo: